8. SINIF
SÖZEL BÖLÜM

1. İZLEME SINAVI

Düşlerinize Yaklaştıran Köprüler kuruyoruz.

KÖPRÜ Projesi

Kurslarda Öğretimin Planlanması ve Rehberlikte Üstünleşme

AÇIKLAMALAR

1. Bu sınavda ***Türkçe*** (20 soru) - ***T.C. İnkılap Tarihi ve Atatürkçülük*** (10 soru) - ***Din Kültürü ve Ahlak Bilgisi*** (10 soru) - ***İngilizce*** (10 soru) olmak üzere dört bölüm bulunmaktadır.
2. Sınavın süresi ***75 dakika***dır.
3. Her sorunun sadece bir doğru cevabı vardır. Bir soru için birden çok cevap yeri işaretlenmişse o soru yanlış cevaplanmış sayılacaktır.
4. Puanlama; her test için yanlış cevap sayısının ***üçte biri, doğru cevap sayısından çıkarılarak*** elde edilecek geçerli cevaplar üzerinden yapılacaktır.
5. Cevaplamaya, istediğiniz testin sorusundan başlayabilirsiniz. Cevabını bilmediğiniz sorular üzerinde fazla zaman kaybetmeden diğer sorulara geçiniz. Zamanınız kalırsa bu sorulara daha sonra dönebilirsiniz.

SİVAS MİLLÎ EĞİTİM MÜDÜRLÜĞÜ

İZLEME SINAVI - 1

1. Önemli bir futbol maçının kritik bir anında kullandığı penaltı atışını gole çeviremeyince ''Bu vuruşum başarısız oldu.'' demek ile '' Ben zaten hiçbir şeyi beceremem.'' demek arasında önemli bir fark vardır. '' Şu anda param yok.'' demek ile ''Ben fakirim.'' demek arasında büyük bir fark vardır. İlk cümle davranışı yargılar ve düzeltilebilir nedenlere götürür. İkinci cümle ise <u>başarısızlığı kimlikleştirir</u>. Bir şey kimlik halini alınca beyin onu doğrulayan verileri toplar, yanlışlayan örnekleri ise göz ardı eder. Böylece başarısızlık sürekli hale gelir. Başarılıların gittikçe başarılı, başarısızların ise gittikçe başarısız olmasının en önemli nedeni budur.

Bu metindeki altı çizili sözle anlatılmak istenen aşağıdakilerden hangisidir?

A) Olumsuz bir durumla karşılaşıldığında çevresel faktörlerin etkisinden kurtulabilmek

B) Sebeplerini ve çözüm yollarını araştırmadan bir problemi doğruca kendine mal etmek

C) Bir alanda hedeflenen sonuca ulaşılamadığında kendine yapılan eleştirileri göz ardı etmek

D) Başarısızlığın üstesinden gelebilmek için farklı deneyimlerden ders çıkarabilmek

2. I. Bütün ilişkileri kesilip büsbütün ayrılmak veya uzaklaşmak
II. Herhangi bir yerinden ikiye ayrılmak
III. Gürültülü veya tehlikeli olaylar, birdenbire başlamak veya ortaya çıkmak

"Kopmak'' **sözcüğü aşağıdaki cümlelerin hangisinde numaralanmış anlamlarından herhangi biriyle <u>kullanılmamıştır</u>?**

A) Gemiyi karaya bağlayan halatın kopması büyük bir tedirginliğe yol açtı.

B) Şehir dışına yerleşince ailesinden tamamen koparak yeni bir hayata başladı.

C) Onlarca koliyi eve tek başına taşıyan adam ''Belim koptu.'' diyerek sızlandı.

D) Radyoda deprem haberinin verilmesiyle teyzemin odasında feryatlar koptu.

3. …

Çiftlikte birkaç yıl önce işe başlayan Hamdi geldiği günden beri etrafa etkisini hissettirmiş ve kendini sevdirmişti. Babam, geçmiş yıllardaki gibi atların hazin sonları olmasın diye Bulgaristan'ın ünlü seyislerinden Hamdi'yi bulmuştu. Hamdi de bu iş için görüşmeye gelmişti. Sonradan muhacir olduğunu öğrendiğimiz Hamdi, ilk kez görüşmeye geldiğinde onu sofada ben karşılamıştım. Hamdi işe başladığından beri atlarımız daha güçlü ve güzel görünüyorlardı.

Bu metindeki bazı sözcüklerin anlamları 1, 2, 3 ve 4 numaralı açıklamalarda verilmiştir. Bu sözcükleri metinden bularak aşağıdaki bulmacaya yerleştiriniz.

1. Göçmen
2. At bakıcısı
3. Hüzünlü
4. Evlerde kapıların açıldığı genişçe yer, hol

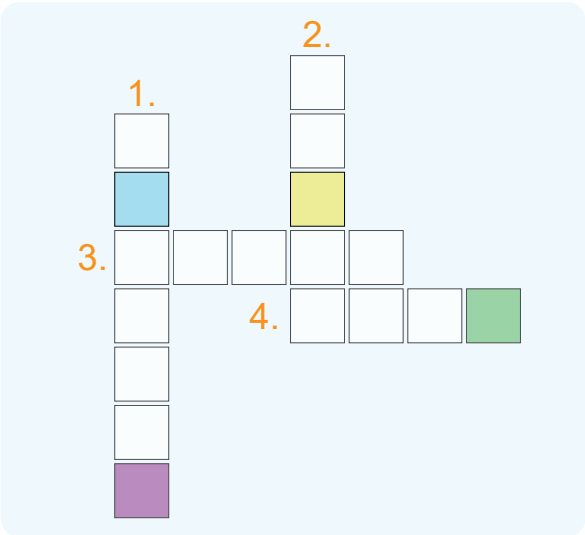

Yukarıdaki bulmacadaki kelimeler yerleştirildiğinde anahtar sözcük hangisi olur?

A) U Y A R

B) O Z A N

C) E Y E R

D) U Y A N

4. Emine Öğretmen, öğrencilerine "Martı Jonathan Livingston" kitabını okutarak öğrencilerinin kitapla ilgili yorum yapmalarını istemiştir. Kitabı okuyan öğrenciler kitapla ilgili şu yorumları yapmıştır:

Taha

Martı Jonathan Livingston, Amerikalı yazar Richard Bach tarafından yazılmış; bir martının kendini aşarak martı sürüsünden sıyrılma ve özgürlüğe ulaşma mücadelesini anlatıyor.

Sarp Kayalıklar, deniz kıyısı, liman, gökyüzü gibi mekânlarda geçen hikâye; martı Jonathan'ın diğer karakterlerle olan problemlerini akıcı bir dille anlatmıştır.

Esra

Asaf

Yazar bu eserinde günlük konuşma dilinin inceliklerini ustaca kullanarak kısa ama yoğun cümleler oluşturmayı başarmış, anlatımıyla diğer yazarları da etkilemiştir.

Eserin başkahramanı Martı Jonathan Livingston, kitabın büyük bölümünde mensup olduğu sürüyle sorunlar yaşamıştır. Azmi, karalılığı ve çalışkanlığı ile bu sorunların üstesinden gelmeyi başarmıştır.

Ömer

Yukarıda eserle ilgili yorum yapan öğrencilerden hangisi eserin hem içeriği hem de üslubuyla ilgili bir yorum yapmıştır?

A) Taha B) Esra C) Asaf D) Ömer

5. Bir zamanlar şirin bir köyde yoksul bir köylü çiftçi yaşarmış. Bu çiftçi tavukları çok severmiş, her gün tavukları beslermiş ama bir tavuğu varmış ki çok özelmiş. Özelliği ise altın yumurtluyor olmasıymış, çiftçi her gün altından olan yumurtayı şehre götürüp kuyumcuda bozdururmuş. Bu böyle giderken yoksul çiftçi giderek zenginleşmeye başlamış, zenginleştikçe çiftçi değişmiş artık para kazanıp geçinmek için çalışmaya gerek duymuyormuş. Çiftçi her gün altın yumurtlayan tavuğun yumurtasını satarak geçiniyormuş. Çok geçmeden çiftçi gereksiz şeylere harcamaya başlamış bu parayı ve bir süre sonra yetmemeye başlamış…

Yukarıda verilen metin aşağıdaki metin türlerinden hangisinden alınmıştır?

A) Öykü B) Fabl C) Masal D) Destan

6. (1) Oyun oynamanın ve oyun kavramının tarihi çok eskilere dayanıyor. (2) Bundan yüzyıllar önce var olan oyun ve oyuncak, varlığını gelişerek ve değişerek günümüze kadar sürdürmüştür. (3) Eskiden çocuklar için oyun; mahalle aralarındaki yakan top, evcilik, körebe, saklambaç gibi eğlenceli aktivitelerdi. (4) Şimdilerde ise değişen yaşam koşulları sebebiyle sokaklarında oyunlar oynayarak vakit geçirdiğimiz mahalle kavramının yerini bilgisayar ve internet oyunları almıştır.

Bu metinde geçen fiilimsilerle ilgili,

I. 1. cümlede isim-fiil kullanılmıştır.
II. 2. cümlede üç fiilimsi türüne de yer verilmiştir.
III. 3. cümlede adlaşmış sıfat-fiil vardır.
IV. 4. cümlede birden fazla fiilimsi vardır.

verilen açıklamalardan hangileri <u>yanlıştır</u>?

A) I ve II
B) II ve III
C) III ve IV
D) I, II ve III

7. Yaşadığımız yer, Tekirdağ'ın Şarköy ilçesine bağlı küçük bir deniz kasabasıydı. Balkan Savaşı sırasında Bulgar'ların eline geçmişti. Onlar, burayı yakıp yıkmışlardı ama buna rağmen güzelliği yerindeydi. Bu yöre de tuğla ocakları, ipekçilik ve bağcılık meşhurdu.

Yukarıdaki metinde yazım kurallarıyla ilgili,

I. Özel adlara getirilen iyelik, durum ve bildirme ekleri kesme işaretiyle ayrılırken yapım ekleri, çokluk eki ve bunlardan sonra gelen diğer ekler kesmeyle ayrılmaz.
II. Bulunma hal eki olan "-da/-de" getirildiği kelimeye bitişik yazılır.
III. Özel ada dâhil olmayıp tamlama kuran şehir, il, ilçe, belde, köy vb. sözler küçük harfle başlar.
IV. Tarihî olay, çağ ve dönem adları büyük harfle başlar.

verilen açıklamalardan hangilerine <u>uyulmamıştır</u>?

A) I ve II
B) II ve III
C) I ve III
D) II ve IV

8. Tatlı dilli, güler yüzlü bir delikanlı bal satardı. Bu; öyle yakışıklı, öyle sevimli bir gençti ki gönüller onun şeker gülüşünden yanar tutuşurdu. Sinekten çok müşterisi vardı. Öyle ki hani zehir satsa onun elinden olduktan sonra herkes bunu bal şerbeti diye içerdi. Bir gün kaba saba bir adam, bu delikanlının satışını gördü; kazancını kıskandı. Ertesi gün kendisi de başında bal, yüzünde sirke, şehri dolaşmaya başladı. Bağıra çağıra bir o yana bir bu yana mahalle arasında geziniyor, malını satmaya çalışıyordu. Fakat ne hikmetse balına müşteri değil, tek sinek bile konmadı. O gün eline hiç para geçmedi. Akşam olunca sıkıntı içinde evine döndü. Fena halde kızmıştı. Suratını cezadan korkan suçlular gibi asmış, kaşlarını bayramda zindanda kalan mahpuslar gibi çatmıştı…

Bu metinde asıl anlatılmak istenen aşağıdakilerden hangisidir?

A) İnsan her zaman, her koşulda en iyi bildiği işi yapmalıdır.
B) Kıskanç olmayan bütün insanlar her zaman başarılı olurlar.
C) Samimi, doğal ve cana yakın olmak; başarı, huzur ve mutluluk getirir.
D) Bir işte başarılı olmak için ısrarcı ve kararlı olmak gerekir.

9. Murat, Fatih, Ayşe, Serhat ve Zehra adlı öğretmenler Muzaffer Sarısözen Ortaokulunda Türkçe, matematik, beden eğitimi, fen bilimleri ve sosyal bilgiler branşlarında derse girmektedirler.

I. Murat, sosyal bilimler veya beden eğitimi öğretmenidir.
II. Ayşe, matematik öğretmeni değildir.
III. Türkçe öğretmeni kadın değildir.
IV. Beden eğitimi ve sosyal bilgiler öğretmeni erkektir.

Yukarıda verilen bilgilere göre Zehra'nın branşı aşağıdakilerden hangisidir?

A) Matematik
B) Fen bilimleri
C) Türkçe
D) Sosyal bilgiler

10.

Halk hikâyesi deyince akla gelen ilk eserlerden biri olan ve içerisinde on iki farklı hikâye bulunan Dede Korkut'ta karakterlerinin çoğunun uçtuğu ve uçma kavramının derinliğini görürüz. Özellikle uçan hayvanları sembol olarak kullanma, Dede Korkut hikâyelerinde sıkça görülür. Bu yönüyle gelecekte anlatılan ve yazılan birçok hikâyeye örneklik etmiştir. Duha Koca Oğlu Deli Dumrul Destanı'nda, Azrail; güvercin kuşu olup bacadan uçar, gider. Yine Basat'ın Tepegöz'ü Öldürdüğü Destanı'nda da Oğuzların perilerle karşılaşmasına değinilir. Eserde mitolojik unsurlar da bulunmaktadır.

Gulliver'in Gezileri, çocuk edebiyatı başyapıtları arasındadır. Bir doktor olan Gulliver'in çeşitli zorluklar ve dönemler atlattıktan sonra çocukluğundan beri hayalini kurduğu yolculuğa çıkmasıyla başlar hikâye. Bundan sonra Gulliver, fantastik bir adaya düşecek ve burada birçok alışılmadık olay yaşayacaktır. Hem hikâyenin geçtiği ada hem de içindeki kahramanlar uçabilmektedir. Adada geçen ilginç sahneler kitabın çekiciliğini artırmaktadır. İsmi Laputa olan bu ada, daha sonra birçok senaryo ve esere ilham kaynağı olmuştur.

Aşağıdakilerden hangisi, hakkında bilgi verilen eserlerin ortak yönlerinden biri <u>değildir</u>?

A) Kendinden sonra ortaya çıkacak eserleri etkilemiştir.

B) Birbirinden farklı hikâyelerin birleşmesiyle oluşmuştur.

C) Hayal ürünü unsurlar bulunmaktadır.

D) Benzer özelliklere sahip kahramanlar bulunmaktadır.

11. "Seni uzun zaman sonra yeniden aramızda görmek beni de onurlandırdı." **cümlesiyle ilgili aşağıdaki yargılardan**

I. İkinci kez bir araya gelmişlerdir.
II. Görüşme birden fazla kişiyi mutlu etmiştir.
III. Belli bir süre görüşmemişlerdir.

hangisi veya hangilerine kesin olarak ulaşılır?

A) Yalnız II B) I ve II

C) II ve III D) I, II ve III

12.
- Bütün dizelerde hece sayısı eşittir.
- İnsan dışındaki bir varlığa insana ait özellik verilmiştir.
- Birinci ve üçüncü dize sonlarında ses benzerliği vardır.

Aşağıdaki dörtlüklerden hangisi yukarıdaki özelliklerin tümünü içermektedir?

A) Yeşil pencerenden bir gül at bana
Işıklarla dolsun kalbimin içi.
Geldim işte mevsim gibi kapına
Gözlerimde bulut, saçlarımda çiğ.

B) Gün olur, alır başımı giderim.
Denizden yeni çıkmış ağların kokusunda.
Şu ada senin, bu ada benim
Yelkovan kuşlarının peşi sıra.

C) Artık demir almak günü gelmişse zamandan,
Meçhule giden bir gemi kalkar bu limandan.
Hiç yolcusu yokmuş gibi sessizce alır yol
Sallanmaz o kalkışta ne mendil ne de bir kol.

D) Yıllar bir gözyaşı olup da kaymış
Nurlu ihtiyarın yanaklarında.
Yapraktan saçını yerlere yaymış,
Sonbahar ağlıyor ayaklarında.

13. Erkek; tıraşı uzamış, kır saçlı, kırk yaşlarında bir köylüydü. Ayağında sarı bir bot, sırtında yamalı büyük bir asker ceketi vardı. Kadınlardan biri ihtiyar, öteki gençti. İkisi de hamam peştamalına benzeyen garip çarşaflara bürünmüşlerdi. Gencin kucağında sıkı sıkı sarıldığı bir bebek vardı. Öteki çocuk on iki on üç yaşlarında zayıf ve şirin yüzlü bir çocuktu.

Yukarıdaki parçada aşağıdaki anlatım biçimlerinden hangisi kullanılmıştır?

A) Öyküleme

B) Betimleme

C) Açıklama

D) Tartışma

14. Dünyamız, bilimin bize sunduğu bilgiler ve teknolojinin bu bilgiler ışığında elde ettiği çıkarımlar ile her gün değişmeye, farklılaşmaya ve günlük hayatlarımızı değiştirmeye devam ediyor. Her gün yeni bir teknoloji ile karşılaştığımız bugünlerin en gözde konulardan biri de robotik kodlama. Özellikle son elli yılda hızla gelişen bilgisayar yazılımları, altyapılar ve sistemleri ile hayatımızda daha da fazla yer almaya başlayan teknoloji ve dijitalleşme, bugün geldiği nokta itibarıyla bizlere robotik kodlamayı da sundu. Basitçe, bir robotun ya da yazılımın ne yapmasını istiyorsanız, onu söylediğiniz talimatlar olarak ifade edilebilecek robotik kodlama, istediğiniz bir görevin yerine getirilmesi için sunduğunuz yol ya da kurallar silsilesidir. İçerisinde bilim, mühendislik, sanat ve teknolojiyi de barındıran bu sistem, farklı bilgi ve tecrübeleri kullanarak buradan elde edilen çıktının farklı bir alana yüklenmesi ya da kodlanmasını içerir.

Bu metinden yola çıkarak aşağıdakilerden hangisi <u>söylenemez</u>?

A) Son yıllarda meydana gelen teknolojik gelişmeler robotik kodlama kavramının ortaya çıkmasını sağlamıştır.

B) Robotik kodlama, içerisinde farklı uzmanlık alanları barındıran bir sistemdir.

C) Bilim sayesinde meydana gelen gelişmeler gündelik yaşantımızı etkilemektedir.

D) Robotik kodlama diğer teknolojik gelişmeleri gölgede bırakmıştır.

15. Bir şairin, bir sanat adamının asıl değeri herkesten başka olmasında, kimseye benzememesinde midir? Şair, sanat adamı bana hiç benzemiyorsa yalnız kendini söyleyip de beni söylemiyorsa ondan bana ne? Ben sanat eserinde kendi sevinçlerimi, kendi acılarımı görmeliyim ki ona ilgi göstereyim. Yoksa bana büsbütün yabancı kalır. Onun karşısında şaşkınlık duyabilirim ama onu sevemem, onu kendi hayatıma karıştıramam.

Bu sözleri söyleyen yazarın sanat eserinden beklediği şey nedir?

A) Sanat eserinde kendimizi bulmamız gerektiği

B) Şairin kimseye benzememesi gerektiği

C) Eserin okuyanları şaşkına çevirmesi gerektiği

D) Eserde sanatçıyı bulmamız gerektiği

16. Kristal Mağarası, 2000 yılında keşfedildiğinden bugüne dünyadaki en önemli mücevherlere ev sahipliği yapıyor. Mağara keşfedilince altındaki su boşaltılmış, dev kristaller ortaya çıkmış. Kristallerin süt beyazı rengi, kabarcıklı yapısı, devasa boyutları bölgeyi oldukça ilgi çekici hale getirmiştir.

Bu parçada virgül aşağıdaki görevlerinden hangisi ile <u>kullanılmamıştır</u>?

A) Birbiri ardınca sıralanan eş görevli kelime ve kelime gruplarının arasına konur.

B) Sıralı cümleleri birbirinden ayırmak için konur.

C) Tırnak içinde olmayan alıntı cümlelerinden sonra konur.

D) Uzun cümlelerde yüklemden uzak düşmüş olan özneyi belirtmek için konur.

17.

Birçok kişisel gelişim kitabı okumaya çalıştım ama hepsini okuyamadım. Çünkü çoğu gerçekten insanlara menü muamelesi yapıyor. Herkesin karakteri farklı, duyguları ve potansiyeli farklıdır. Bütün bu farklı insanlara aynı modeli ortaya koyup ''Başaracaksın, şöyle başarırsın; şunu örnek almalı, onun gibi olmalısın.'' diyerek hırs yüklemesi yaparsan ortalıkta birbirinin üzerine basmaya çalışan hırs küpü insanlar yaratırsın. ''Birisi yaptıysa sen de yaparsın.'' düşüncesi yanlış bir yaklaşım. Herkesin mutlu olacağı şey farklıdır. Bu yüzden kişisel gelişim okumak yerine Mevlana okumanın, arkeoloji kitapları okumanın, tarihi olaylardan ders çıkarmanın daha doğru olduğunu düşünüyorum.

Bu metin aşağıdaki sorulardan hangisine cevap vermek amacıyla yazılmıştır?

A) Ülkemizde yazılan kişisel gelişim kitaplarından en çok hangisinden etkilendiniz?

B) İnsanın kendini geliştirebilmesi için hayatında hangi dönemlere dikkat etmesi gerekir?

C) Başarılı olabilmek için hangi özelliklere sahip insanların örnek alınması gerektiğini düşünüyorsunuz?

D) Kişisel gelişim konusunda bilgilenmek ve kendini geliştirmek için ne gibi tavsiyelerde bulunursunuz?

18. Resimli bir kupa almak isteyen Kadir, Murat ve Alper'le ilgili bilinenler şunlardır:

- Kadir, mavi ve mavinin tonlarını sevmektedir. Pasta yapmaya ilgisi olan Kadir, bu yeteneğini geliştirmek için özel bir pastacılık okuluna gitmektedir. Bir şeklin detaylarıyla ilgilenmeyi sevmediği için evini daha sade dekore etmeyi tercih etmiştir. İngilizce öğrenmeye çalışan Kadir, çevresindeki her yere İngilizce kelimeler yapıştırmaktadır.

- Murat, yeniliklere açık ve sürprizleri seven bir kişiliğe sahiptir. Bu özelliğinden dolayı çevresi tarafından çok sevilmektedir. İlginç şeyler Murat'ın ilgisini daha çok çektiği için bu tür eşyaları almayı tercih etmektedir.

- Alper, doğayı ve hayvanları çok seven bir kişidir. Evinde birçok evcil hayvan besleyenmektedir, doğa ve hayvan resimlerine bakmaktan hoşlanmaktadır. Kardeşi Sefa ise uzaya ve gezegenlere ilgili birisidir. Odasının her tarafında uzayla ilgili görseller bulunmaktadır. Alper, kardeşi Sefa'ya resimli bir kupa alacaktır. Bu yüzden onun beğenisine göre tercih yapacaktır.

Yukarıda verilen bilgiler çerçevesinde aşağıda görselleri verilen resimli kupalardan hangisi bu üç kişinin tercih edeceği bir kupa <u>değildir</u>?

A)

B)

C)

D)

19.

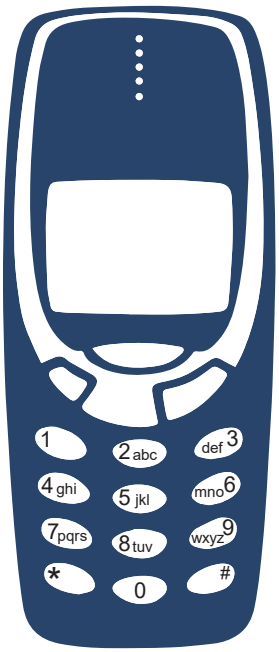

Tuşlu telefonlarda mesaj yazarken belli bir sistematik kullanılmaktadır. Bu sistematiğe göre her rakam üç farklı harfle eşleştirilmiştir. Mesela ''c'' harfini yazmak için ''2'' rakamına üç kez art arda basmak gerekmektedir. Örneğin tuşlu bir telefonda ''AHU'' kelimesi ''24488'' tuş kombinasyonu ile ortaya çıkmaktadır.

Alper, Emir, Yeliz, Tuğçe adlı kişilerden ''KALE'' sözcüğünü bu sistematiğe göre tuşlu telefonda oluşturmaları istenmiştir. İlgili kişilerin verdikleri cevaplar şu şekildedir:

Alper → 5255533

Emir → 55277733

Yeliz → 555255533

Tuğçe → 55255533

Buna göre "KALE" sözcüğünü doğru şekilde oluşturan kişi aşağıdakilerden hangisidir?

A) Alper B) Emir C) Yeliz D) Tuğçe

20.

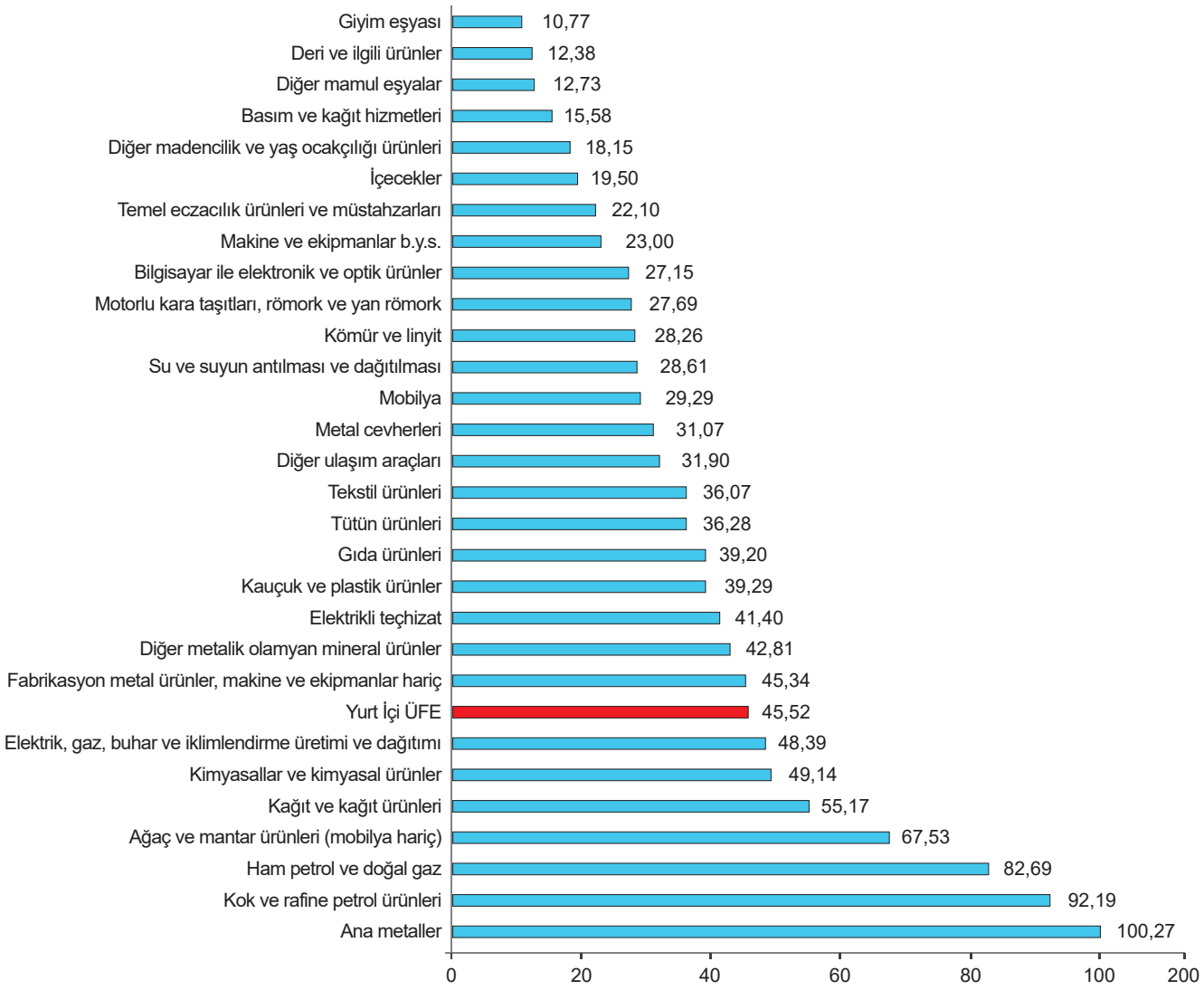

Yukarıda TÜİK tarafından hazırlanan Ağustos 2021 yılına ait yurt içi üretici fiyat artış oranını gösteren tablo yer almaktadır.

Tabloda verilen bilgilere göre aşağıdakilerden hangisi <u>yanlıştır</u>?

A) Gıda ürünlerindeki artış oranı, içeceklerdeki artış oranından daha fazladır.

B) Kâğıt ve kâğıt ürünlerindeki artış oranı, basım ve kağıt hizmetlerindeki artış oranının üç katından fazladır.

C) Tekstil ürünlerindeki artış oranı, elektrikli teçhizattaki artış oranından daha fazladır.

D) Mobilya ürünlerindeki artış oranı, kömür ve linyit ürünlerindeki artış oranından fazladır.

Türkçe testi bitti.
T.C. İnkılap Tarihi ve Atatürkçülük testine geçiniz.

İZLEME SINAVI - 1

1. Bütün Müslümanları bir bayrak altında toplamayı hedefleyen bu düşünce II. Abdülhamit döneminde devlet politikası hailne gelmiştir. Bu fikir akımı ile Fransız İhtilali'nin İslam dünyası üzerindeki olumsuz etkisi kırılmaya çalışılmıştır. Fakat I. Dünya Savaşı'nda Hicaz ve Yemen Cephesi'ndeki yaşanan gelişmeler bu düşüncenin iflas ettiğini göstermiştir.

Verilen metne göre Osmanlı Devleti'ni dağılmaktan kurtarmak için ortaya atılan fikir akımı aşağıdakilerden hangisidir?

A) Turancılık
B) Ümmetçilik
C) Batıcılık
D) Osmanlıcılık

2. Balkan devletleri Rusya'nın da kışkırtması ile Osmanlı Devleti'ne savaş açtı. Osmanlı Devleti, 1. Balkan Savaşı'nda başarısız oldu ve Edirne'yi Bulgaristan'a bırakmak zorunda kaldı. Balkan devletleri Osmanlı'dan aldığı toprakları paylaşamayınca kendi aralarında savaşa tutuştular. Bu durumu fırsat bilen Osmanlı Devleti Bulgaristan'dan Edirne'yi geri aldı ancak Balkan Savaşları sonucunda Balkanlardaki Türk hâkimiyeti sona erdi. Kaybedilen Balkan topraklarından Anadolu'ya büyük bir göç dalgası yaşandı. Yunanistan ve Bulgaristan'da kalan Türklerin kültürel ve dinî hakları antlaşmalarla güvence altına alındı.

Verilen metne göre Balkan Savaşları sonucunda aşağıdaki gelişmelerden hangisinin yaşanması <u>beklenemez</u>?

A) Anadolu'daki Türk nüfusu artmıştır.
B) Balkanlardaki Türklerin hakları korunmuştur.
C) Balkanlarda Türk varlığı sona ermiştir.
D) Osmanlı Devleti toprak kaybetmiştir.

3. 20. yüzyılın başlarında siyasi birliğini sağlayarak sanayileşen İtalya, sömürge edinmek için Osmanlı Devleti'nin Kuzey Afrika'daki son toprağı olan Trablusgarp'a saldırdı (1911). Osmanlı Devleti bu toprakları korumak için karadan ve denizden yardım gönderemedi. Çünkü Mısır, İngilizler tarafından işgal edilmişti ve Osmanlı donanması yetersiz durumdaydı. Bu durum karşısında aralarında Mustafa Kemal'in de bulunduğu Enver Bey, Ali Fethi Bey gibi Türk subayları devletin bilgisi dâhilinde bu toprakları korumak düşüncesi ile gizlice Trablusgarp'a gittiler. İtalyanlara karşı yerel kuvvetlerden güçlü bir cephe kurarak başarı ile direndiler.

Verilen metne göre aşağıdaki yorumlardan hangisine <u>ulaşılamaz</u>?

A) Mustafa Kemal ve arkadaşları İtalyanlara karşı başarılı bir mücadele vermişlerdir.
B) İtalya, sömürge elde etmek için Osmanlı Devleti'nin topraklarına saldırmıştır.
C) Osmanlı Devleti, Mısır'ın İngiliz işgalinde olmasından dolayı karadan yardım gönderememiştir.
D) Mustafa Kemal gibi gönüllü subaylar devlete bilgi vermeden Trablusgarp'a gitmişlerdir.

4. Aşağıdaki tabloda Mustafa Kemal ile ilgili bazı bilgiler verilmiştir.

Trablusgarp Savaşı'nda halkı İtalyanlara karşı örgütlemiş başarılı bir savunma yapmıştır.
Şam'da Vatan ve Hürriyet cemiyetini kurmuştur.
Meşruti yönetime karşı 31 Mart isyanını bastıran Harekat Ordusu'nda görev almıştır.
Fransızca öğrenerek Fransız düşünürleri takip etmiştir.

Tabloda verilen bilgilere bakılarak Mustafa Kemal'in hangi kişisel özelliği <u>çıkarılamaz</u>?

A) Vatansever
B) Teşkilatçı
C) İleri görüşlü
D) Yenilikçi

5. Mustafa Kemal, Harp Akademisi'nden mezun olduktan sonra Şam'daki 5. Ordu'ya atandı. Burada yakın arkadaşları ile Vatan ve Hürriyet Cemiyeti'ni kurdu. Şam'daki görevinden sonra Manastır'da bulunan 3. Ordu'ya atanan Mustafa Kemal, bu ordunun Selanik şubesinde görev yapmaya başladı. II. Meşrutiyet'in ilanından sonra buna karşı olanların çıkardığı 31 Mart İsyanı'nı bastırmak ve meşrutiyet yönetimini korumak için Selanik'ten gelen Harekât Ordusu'nun kurmay başkanı olarak görev yaptı. İtalyanların Trablusgarp'ı işgal etmesi üzerine subay arkadaşları ile beraber gönüllü olarak bu bölgeye gitti ve ilk askeri başarısını kazandı.

Sadece verilen metne bakılarak Mustafa Kemal'in askerlik hayatı ile ilgili aşağıda verilen çıkarımlardan hangisine <u>ulaşılamaz</u>?

A) Mustafa Kemal, Harp Akademisi'nden Kurmay Yüzbaşı olarak mezun olmuştur.

B) İlk askeri başarısını Trablusgarp Savaşı'nda elde etmiştir.

C) Asker olarak ilk görev yeri Şam'da bulunan 5. Ordu'dur.

D) Meşrutiyet yönetimini korumaya çalışmıştır.

6. Osmanlı Devleti'nde eğitimde birliğin olmaması farklı dünya görüşü olan nesillerin oluşmasına sebep oldu. Avrupai tarzda yeni okulların açılmasına karşın eski usul eğitim veren medreselerin varlığını sürdürmesi kültürel çatışmaların fitilini ateşledi. Ayrıca azınlıkların kendi okullarında milliyetçilik ideolojisi yayması ve yabancı devletlerin açtıkları okullarda casusluk faaliyetleri yürütmesi de devletin parçalanmasında önemli rol oynadı.

Verilen metne göre Osmanlı Devleti'ndeki eğitim sisteminde birlik olmamasının sonucu olarak aşağıdakilerden hangisi <u>söylenemez</u>?

A) Osmanlı Devleti'nin bilim ve kültür alanında hızla ilerlemesi

B) Toplumda kültürel çatışmalara yol açması

C) Azınlık isyanlarına uygun zemin hazırlaması

D) Sömürgeci devletlerin yıkıcı faaliyetlerine olanak sunması

7. Selanik, Osmanlı - Avrupa ticaretinin önemli liman kentlerinden biriydi. Kara, deniz ve demiryolu ulaşımı gelişmişti. Üsküp, Belgrat, Manastır ve İstanbul'a demir yolu ile bağlıydı. Selanik'te, çoğunluğu Türkler olmak üzere Rum, Bulgar, Ermeni, Yahudi ve Sırplar birlikte yaşamaktaydı. Farklı milletlerin bulunduğu bu şehirde, çeşitli dillerde gazete ve dergiler yayınlanırdı. Bu çok uluslu yapıda, konuşulan diller, inançlar, gelenek ve görenekler şehirde çok zengin bir sosyal ve kültürel yapının oluşmasını sağlamıştı. Mustafa Kemal'in çocukluğunu geçirdiği bu şehir onun fikir hayatının ve ufkunun gelişmesine olumlu katkılar yapmıştır.

Verilen metne göre aşağıdakilerden hangisinin doğru olduğu söylenebilir?

A) Selanik'te nüfusun çoğunluğunu Rumlar oluşturmaktadır.

B) Selanik'te farklı milletlerin yaşaması kültürel çatışmalara neden olmuştur.

C) Selanik, kültürel ve ticari açıdan gelişmiş bir şehirdir.

D) Selanik'te Mustafa Kemal'in fikir hayatı olumsuz yönde etkilenmiştir.

8. Osmanlı Devleti'nin 19. ve 20. yüzyılda Avrupa devletlerinin arasındaki çıkar çatışmalarından yararlanarak varlığını devam ettirme politikasına denge politikası denir. Osmanlı Devleti ilk kez Mısır'ı işgal eden Fransa'ya karşı İngiltere ve Rusya'nın desteğini alarak denge politikasını uygulamıştır.

Verilen metne göre Osmanlı Devleti'nin denge politikası hakkında yapılan yorumlardan hangisi <u>yanlıştır</u>?

A) Osmanlı Devleti kendi topraklarını koruyamaz hale gelmiştir.

B) Denge politikası Osmanlı Devleti'ni yıkılmaktan kurtarmıştır.

C) Osmanlı Devleti büyük devletler arasındaki çıkar çatışmalarından faydalanmıştır.

D) Osmanlı Devleti, denge politikasını uygulamaya ilk kez Mısır'ın işgali ile başlamıştır.

9.

Avrupa'nın Güçlenme Süreci

Coğrafi Keşifler

Yeni keşfedilen yerlerden Avrupa'ya bol miktarda altın ve gümüş madeni taşındı. Avrupalı devletlerin birçoğu kısa sürede zenginleşti ve sermaye birikimi elde ettiler.

Rönesans ve Reform

Zenginleşen Avrupa'da bilim, kültür ve sanat alanında önemli gelişmeler yaşandı. Reform hareketleri ile kilisenin etkinliği azaldı. Dinin etkisinde olmayan, özgür bir araştırma ortamının oluşmasına katkı sağladı.

Aydınlanma Çağı

Bu dönemde Avrupa'da bilim, sanat, edebiyat, siyaset ve sosyal alanlarda önemli eserler verildi. Yaşanan bu bilimsel ve teknolojik gelişmeler Sanayi İnkılabı'nın temellerini oluşturdu.

Fransız İhtilali

Fransız İhtilali, tüm dünyada eşitlik, adalet, bağımsızlık ve milliyetçilik düşüncelerinin doğmasına ve yayılmasına ortam hazırladı. Bu durumdan en çok etkilenenler ise Osmanlı Devleti ile Avusturya - Macaristan İmparatorluğu gibi çok uluslu devletler oldu.

Sanayi İnkılabı ve Sömürgecilik

İngiltere'de başlayan Sanayi İnkılabı ile üretim arttı, bol ve ucuz mal üretimi sağlandı. Bununla birlikte sanayileşen ülkeler için ham madde kaynakları ve yeni pazarlar bulmak önemli bir ihtiyaç ve sorun haline geldi. Sanayileşen devletler ihtiyaçları olan hammaddeyi karşılamak ve ürettikleri ürünleri satmak için sömürgecilik yarışına girdiler.

Avrupa'nın güçlenme sürecini anlatan bilgilere göre yapılan yorumlardan hangisinin doğru olduğu <u>söylenemez</u>?

A) Aydınlanma Çağı teknolojik gelişmelerin önünü açmıştır.

B) Sanayileşen devletler birbirleri ile iktisadi rekabette bulunmuşlardır.

C) Coğrafi Keşifler, sayesinde Avrupalı devletler kısa sürede zenginleşmiştir.

D) Osmanlı Devleti, Reform hareketlerini desteklemiştir.

10.

MUSTAFA KEMAL'İN ETKİLENDİĞİ FİKİR ADAMLARI	
FİKİR ADAMI	**ETKİLENDİĞİ ALAN**
MONTESQUİUE	YURTTAŞLIK BİLİNCİ
NAMIK KEMAL	VATANSEVERLİK
TEVFİK FİKRET	İNKILAPÇILIK
J.J.ROUSSEAU	CUMHURİYETÇİLİK
ZİYA GÖKALP	TÜRKÇÜLÜK
MEHMET EMİN YURDAKUL	MİLLİYETÇLİK

Verilen tablo incelendiğinde, aşağıdakilerden hangisinin doğru olduğu söylenebilir?

A) Mustafa Kemal sadece yerli fikir adamlarından etkilenmiştir.

B) Mustafa Kemal'in fikir hayatının oluşumunda farklı fikir adamlarının etkisi vardır.

C) Milliyetçilik konusunda yabancı fikir adamlarından etkilenmiştir.

D) Yerli fikir adamları askerlik hayatında başarılı olmasında etkili olmuşlardır.

T.C. İnkılap Tarihi ve Atatürkçülük testi bitti.
Din Kültürü ve Ahlak Bilgisi testine geçiniz.

İZLEME SINAVI - 1

1.

HABER

Diyanet İşleri Başkanlığı'nca, son dönemde yaşanan kuraklık nedeniyle yarınki cuma namazı hutbesinde suyun tasarruflu kullanımına dikkat çekilerek, namaz sonrası tüm camilerde yağmur duası yapılacak.
Diyanet İşleri Başkanlığı, yarın kılınacak cuma namazının hutbesinde yurt genelinde yaşanan su kıtlığına dikkat çekecek. Yarın tüm camilerden okunacak cuma hutbesi, Diyanet İşleri Başkanlığı Din Hizmetleri Genel Müdürlüğü'nün web sitesinden vatandaşlara duyuruldu.

Yukarıdaki haberin konusu ile aşağıdaki ayetlerden hangisi örtüşmektedir?

A) "İnsanların kendi elleriyle yapıp ettikleri yüzünden karada ve denizde düzen bozuldu; böylece Allah dönüş yapsınlar diye işlediklerinin bir kısmını onlara tattırıyor." (Rum suresi, 41. Ayet)

B) "Kim zerre miktarı hayır yapmışsa onu (karşılığını) görür. Kim de zerre miktarı şer işlemişse onu (karşılığını) görür." (Zilzal suresi, 7-8. Ayetler)

C) "Bu Kur'an; kendisiyle uyarılsınlar, Allah'ın ancak tek ilah olduğunu bilsinler ve akıl sahipleri düşünüp öğüt alsınlar diye insanlara bir bildiridir." (İbrâhîm suresi, 52. Ayet)

D) "Nerede olursanız olun, sağlam ve tahkim edilmiş kaleler içinde bulunsanız bile ölüm size ulaşacaktır..." (Nisâ suresi, 78. ayet.)

2. Öğretmen, öğrencilerine aşağıdaki bulmacayı çözmeleri için vermiştir.

Yukarıdan Aşağıya

1. Beden veya zihinde meydana gelen, rahatsızlık, dert ve görev bozukluğuna yol açan belirli bir anormal duruma verilen isimdir.

Soldan Sağa

2. Bir kimsenin verdiği kararların sonuçlarını üstlenmesi, yaptığı ya da yapması gerekirken yapmadığı işlerden dolayı hesap vermek zorunda olmasıdır.
3. Allah'ın (c.c) istediğini istediği gibi dilemesi ve seçmesi. Allah'ın (c.c) mutlak ve sınırsız iradesidir.
4. Allah'ın (c.c.) sonsuz ilmi ve kudretiyle, evrende olmuş ve olacak olan her şeyi takdir etmesidir.

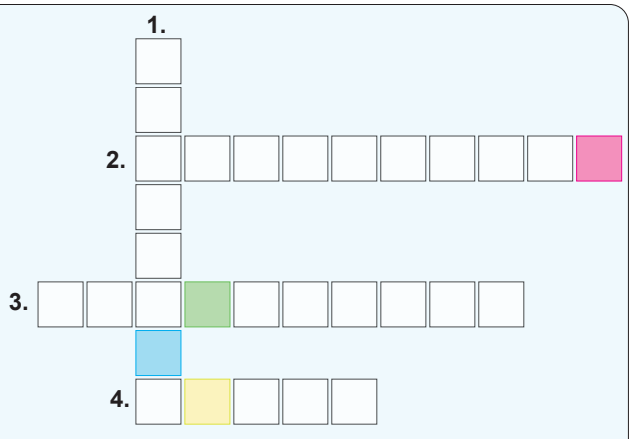

Buna göre numaralandırılmış boşluklarda oluşan anahtar kelime hangisinde doğru olarak verilmiştir?

A) E C E L

B) A K I L

C) A S I L

D) O K U R

3.

Mustafa Kemal Atatürk

1881 yılında Selanik'te doğan Mustafa Kemal Atatürk'ün babası Ali Rıza Efendi'dir. Annesi ise Zübeyde Hanım'dır.

Eğitim hayatına Mahalle Mektebi ile başlayan Atatürk, sırasıyla Şemsi Efendi İlkokulu, Selanik Mülkiye Rüştiyesi, Selanik Askeri Rüştiyesi, Manastır Askeri İdadisine gitmiştir.

Harp akademisinde üniversite eğitimini tamamlayarak askerlik hayatına başlamıştır. Askeri Rüştiye okuluna devam ederken matematik öğretmeninin ona Kemal adını vermesi ile beraber, o andan itibaren ismi Mustafa Kemal olarak kalmıştır.

Özellikle Çanakkale'de kazandığı zafer ile I. Dünya Savaşı'nın seyrini değiştiren Mustafa Kemal Atatürk, bu savaş ile beraber tüm dünya tarafından tanınmasıyla tarihe geçmiştir.

Büyük Taarruz ile beraber Anadolu topraklarının yeniden kazanılmasını sağlayan Mustafa Kemal Atatürk, 29 Ekim 1923 tarihinde cumhuriyeti ilan etti. Türkiye Cumhuriyeti'nin ilk cumhurbaşkanı olması ile beraber, 1934 senesinde Gazi Mustafa Kemal'e soy isim olarak 'Atatürk' layık görüldü.

Atatürk'ün sağlık durumu 1937 yılından itibaren bozulmaya başladı. Kendisine 1938 yılı başlarında siroz teşhisi konuldu. Kötüleşen sağlığı Türk ve yabancı doktorların tedavilerine sonuç vermedi.

Atatürk 10 Kasım 1938 sabahı saat 09.05'te İstanbul Dolmabahçe Sarayı'nda vefat etti.

Buna göre Mustafa Kemal Atatürk'ün;

I. Selanik'te 1881 yılında dünyaya gelmesi,
II. Annesinin Zübeyde Hanım olması,
III. Büyük Taarruz'da komutanlık yapması,
IV. Soyadının Atatürk olması,
V. 10 Kasım 1938 sabahı saat 09.05'te İstanbul Dolmabahçe Sarayı'nda vefat etmesi

durumlarından hangileri külli irade kapsamında değerlendirilir?

A) III ve IV B) II, III, IV ve V C) I,II ve V D) I,II, IV ve V

4. Osman Bey sabah saatlerinde işe gitmek için evden çıkar. İşe geç kalmamak için arabayı biraz hızlı kullanır. İşyerine yakın bir yerde, süratli olması ve bir anlık dikkatsizliği nedeniyle öndeki araca şiddetli bir şekilde çarpar. Osman Bey diğer aracın sürücüsüyle konuştuktan sonra yolda uyarı tabelası, yol çizgileri ve yapılacak hızın kaç km olduğunu gösteren işaretlerin olup olmadığını kontrol eder.

Buna göre Osman Bey kazadan sonra yaptığı davranışla neyi amaçlamıştır?

A) Yayaların trafik güvenliğini sağlamayı

B) Sorumluluğu üzerinden atacak sorunlar bulmayı

C) Diğer araç sürücülerini uyarmayı

D) Dikkatinin dağılmasına nelerin sebep olduğunu bulmayı

5. Sevgili öğrenciler, evrenin düzenini sağlayan yasalar 3 başlıktan oluşur. Bunların ilki olan fiziksel yasalar, madde ve enerjinin oluşumu, değişimi, yapısı, hareketi ve maddeler arası ilişkiler ile ilgili prensiplerdir. Fiziksel yasalar deneye, gözleme ve araştırmaya dayalı olduğu için evrensel ve değişmez bir niteliğe sahiptir. Madde ve enerji, yapısı, değişim, aralarındaki ilişkiler, hareket ve kuvvet ile ilgilenir. Fiziksel yasalara şu örnekler verilebilir:
.....

Öğretmenin verdiği örnekler arasında aşağıdakilerden hangisi yer almamalıdır?

A) Zıt yüklerin birbirini çekmesi ve aynı yüklerin birbirini itmesi

B) Dünya'nın Güneş etrafında bir tam turunun 365 gün 6 saat olması

C) Balıkların suda çözünmüş oksijeni kullanabilecek solunum sistemine sahip olması

D) Bütün maddelerin atomlardan oluşması

6. Sonbahar ayları yaklaştığı zaman ağaçlar boynunu eğer ve akciğerleri olan kendilerini bir elbise gibi süsleyen yapraklara veda ederler. Bu vedalaşma ilkbahara kadar olacaktır. Sonbahar geldiği zaman güneşin gücü azalır, bundan dolayı bitkiler ışık alıp kendilerine besin yapmaz olurlar. Biliyoruz ki bitkilerin temel besin kaynağı su ve güneştir. Kendine besin alamayan bitkiler o zaman bütün gücünü gövdesine verir ve artık üzerine giysi olan, nefesini sağlayan yapraklara verecek besini yoktur. Bundan dolayı da besinsiz kalan yapraklar, günden güne sararır ve dökülür.

Doğanın yaşadığı bu değişim evrensel yasalardan hangisiyle açıklanabilir?

A) Bilimsel yasalar

B) Bitkisel yasalar

C) Fiziksel yasalar

D) Biyolojik yasalar

7. Aşağıda öğretmenin yazılıda kullandığı 10 puanlık doğru-yanlış etkinliği bulunmaktadır.

	D/Y
1. Allah'ın evrendeki uyumu sağlamak için koyduğu yasalara âdetullah denir.	✓
2. Evrenin işleyişi, devamı ve son bulması da Allah'ın takdiri ile gerçekleşmektedir.	✓
3. Allah'ın her şeye gücünün yetmesi, dilediğini dilediği zamanda var veya yok etmesine kudret denir.	✗
4. Yağmurun yağması biyolojik yasalarla ilgilidir.	✗
5. Yarattıklarına maddî ve mânevî her türlü rızkı bol bol ihsan eden Allah'ın isimlerinden olan el-Fettah'tır.	✓

Not: Her soru eşit puanlıdır. Her yanlış 2 puan götürecektir.

Buna göre yukarıdaki etkinliği yapan öğrencinin puanı aşağıdakilerden hangisinde doğru olarak verilmiştir?

A) 2 B) 4 C) 6 D) 8

8. Hz. Ömer (ra) halifeliği sırasında orduyla birlikte Şam'a sefere çıkılmıştı. Şehre yaklaşıldığı sırada kendisine salgın bir hastalığın baş gösterdiğini haber verdiler. Hz. Ömer de ensar, muhacir ve ileri gelenlerle konuyu istişare ettikten sonra tekrar Medine'ye dönme kararı aldı. Bir sahabe şöyle seslendi.
-Allah'ın kaderinden mi kaçıyorsun? diye sordu.
Hz. Ömer:
-Evet, Allah'ın kaderinden yine Allah'ın kaderine kaçıyoruz.

Yukarı parçaya göre Hz Ömer'in aldığı karar kaderin hangi özelliğine dayanmaktadır?

A) Kaderin değiştirilemez olması
B) Kaderin önceden belirlenmiş olması
C) Kaderin içinde tedbirinde olması
D) Kaderin kazadan önce gelmesi

9.

•	Korkunun ecele faydası yoktur.
•	Her şey olacağına varır.
•	Allah yazdıysa bozsun.
•	Alnıma yazıldıysa zaten beni bulur.

Tabloda yer alan ifadelerle ilgili aşağıda yapılan yorumlardan hangisi doğrudur?

A) Doğru tevekkül anlayışına işaret etmektedir.
B) Kaderle ilgili yanlış inanışlara örnektir.
C) Kader ve kaza ayrımını ortaya koyan ifadelerdir.
D) Özgürlük ve sorumluluk arasındaki ilişkiye işaret etmektedir.

10. Ülkemizde gerçekleşen iş kazaları ve meslek hastalıkları ile ilgili veriler her yıl SGK tarafından yayımlanmaktadır. SGK istatistiklerine göre 2019 senesinde toplam 423.551 iş kazası kayıt altına alınmıştır. Buna göre her saatte bir 48'den fazla iş kazasının yaşandığı söylenebilir. Aşağıdaki grafikte iş kazalarının 2011-2019 yılları arasındaki sayıları görülmektedir.

I. İş kazalarındaki artış tevekküle uygun hareket edilmediğini göstermektedir.
II. İş kazalarının varlığı külli irade kapsamına girmektedir.
III. Tabloya göre sorumlulukların yeterince yerine getirilmediği görülmektedir.
IV. Tabloda tedbir de alınsa kaderin önüne geçilemeyeceği gerçeğini anlatmaktadır.

Buna göre yukarıdaki çıkarımlardan hangileri <u>yanlıştır</u>?

A) I ve IV B) II ve III C) III ve IV D) II ve IV

Din Kültürü ve Ahlak Bilgisi testi bitti.
İngilizce testine geçiniz.

İZLEME SINAVI - 1

1. Read the conversation and answer the question.

Which of the following does NOT complete the sentences?

A) funny
B) helpful
C) punctual
D) tactful

2. Read the dialogue and answer the question.

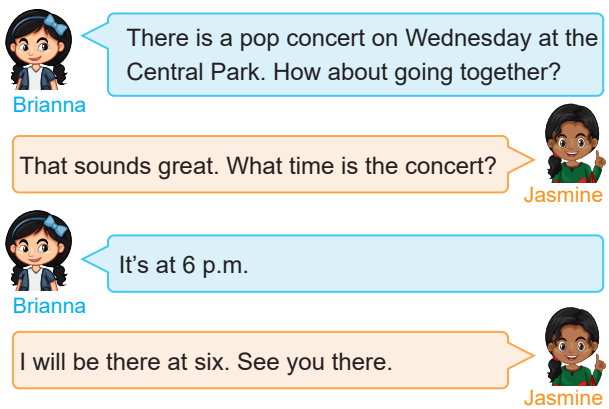

Which of the following is NOT correct according to the dialogue?

A) Brianna invites Jasmine to an event.
B) Jasmine doesn't refuse the offer.
C) Brianna doesn't know the place.
D) Jasmine asks for a detail of the event.

3.

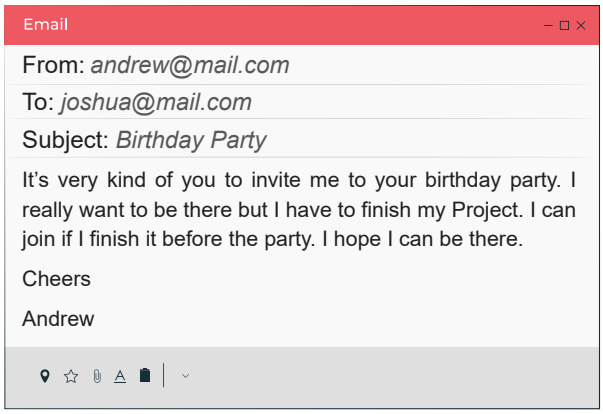

According to the e-mail, - - - -.

A) Andrew isn't going to join the party
B) Joshua is the invitee
C) the party is at Andrew's house
D) the time of the party isn't clear

4. Liam and Noah want to do something together and the table shows their interests.

Liam	Noah
Playing video games	Going swimming
Going to cinema	Listening to pop music
Cycling	Watching movies

Which of the following is suitable for both of them?

A)

B)

C)

D)

5.

I. Not really. We can meet on Sunday.

II. What about tomorrow? Are you doing anything?

III. Hi, Mike. Shall we come together to chit chat on Saturday?

IV. I'm afraid, I can't. My grandparents are coming over for dinner on that day.

What is the correct order of the sentences in the dialogue?

A) III – IV – II – I
B) III – I – II – IV
C) II – I – III – IV
D) II – IV – III – I

6. Peter likes reading books on similar topics. Here are the books he read:

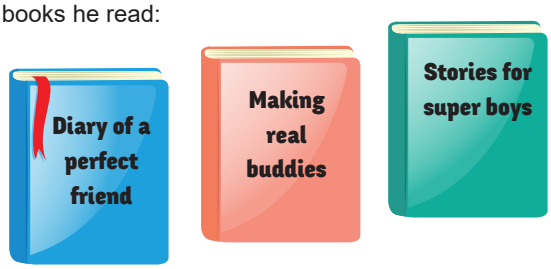

Which of the following book would Peter buy next?

A)

B)

C)

D)

7. Lauren is making plans about next week. The table below shows some information about them:

Invitation	Time	Person	Reply
Cycling at the park	Monday 2 p.m.	William	I'd like to but I have a match ticket at that time.
Going to the zoo	Wednesday 10 a.m.	Emma & Michelle	Why not. Can you pick us up half an hour ago?
Throwing a slumber party	Thursday 9 p.m.	Lily, Madison, Mary and Jessica	Everybody will attend the event except Mary because her aunt is coming over that day.
Camping by the lake	Whole weekend	Lauren's parents	Of course. What time do we leave home on Saturday morning?

According to the given information, which of the following is NOT correct?

A) William refuses Lauren's invitation about bike riding.
B) Emma and Michelle will come to the zoo on Wednesday.
C) Mary has an excuse for not attending the event.
D) Lauren's parents know every detail of the activity.

8. Read the conversation and answer the question.

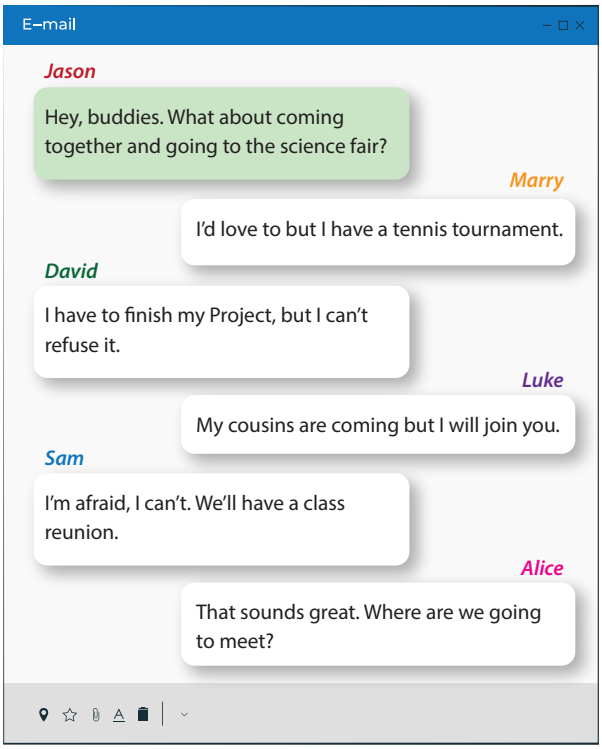

How many people will NOT attend the event?

A) 1 B) 2 C) 3 D) 4

9. Hillary and her friends are talking about their favorite singer.

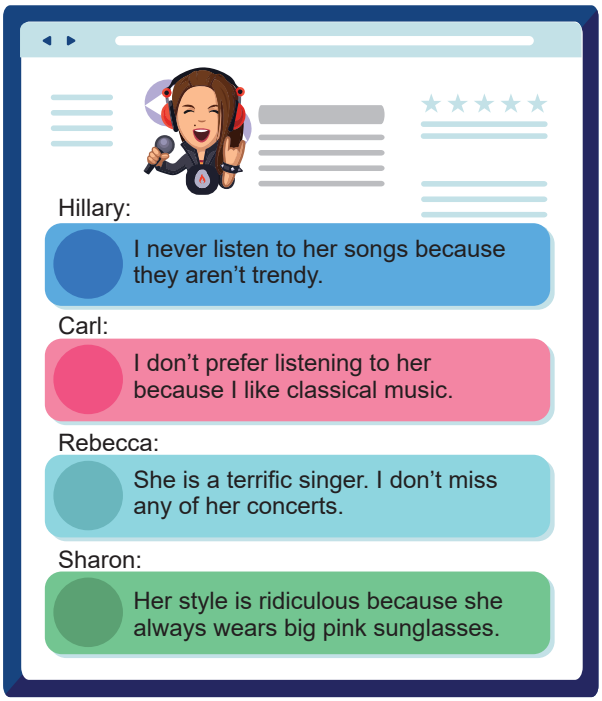

According to the comments, who says something good about the singer?

A) Hillary B) Carl
C) Rebecca D) Sharon

10. Look at the table and answer the question.

	Sci-fi	Comedy	Action
James	exciting	unbearable	boring
Ava	awesome	fun	awful
Olivia	interesting	amusing	terrible

Which of the following is correct according to the table?

A) Ava doesn't like sci-fi movies.
B) Olivia enjoys watching action movies.
C) James can't stand comedy movies.
D) All of them prefer watching action movies.

Sınav bitti.
Cevaplarınızı kontrol ediniz.

SİVAS MİLLÎ EĞİTİM MÜDÜRLÜĞÜ

Düşlerinize Yaklaştıran Köprüler kuruyoruz.

KÖPRÜ Projesi

Kurslarda Öğretimin Planlanması ve Rehberlikte Üstünleşme

Köprü Projesi Youtube Kanalı

sivasmem